shixpoDR#9 『大山東部スーパー林道は今・・・？』 Quiz－1

クイズ1（距離計測）

スタートからゴールまでの各CP間の距離を計測して下さい。
1mの位は四捨五入して、10m単位で答えて下さい。
（0．01kmの誤差で減点1）

クイズ2 Q-A

（2図先）広域基幹林道　円谷広瀬線の1m当たりの事業費はいくらか？
（減点3点）

Q-B



（2図先）2図から5図の間で、対面する上り急勾配標識の9%未満のものは幾つあるか？
（減点3点）

Q-C

（5図先）大滝山観音堂の近くにある『〇〇〇痕』 何か？
（減点3点）

Q-D

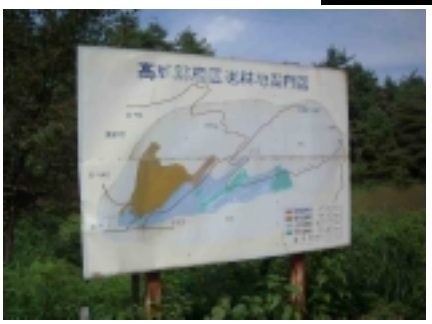

（10図先）『高城財産区造林地案内図』によると、「自主造林地」は総面積の何%か？　四捨五入して整数で答えよ。
（減点3点）

Q-E

（11図先）この建造物の名称は？
（減点3点）

Q-F

（9CP）『一息坂周辺観光マップ』にはいくつ「動物」が描かれているか？
（減点3点）

shixpoDR#9 『大山東部スーパー林道は今・・・？』 Quiz－2

クイズ3 ボーナスクイズ

全問正解ならボーナス点3点。
1問でも誤答がある場合は減点3点です。
解かなかった場合は、ボーナス、減点とも無しです。
解く場合は、全てに解答して下さい。無回答がある場合は、誤答と判断します。
順番に出てきます。

BQ-a

このモニュメントの名前は？

BQ-b



この蝶に一番近いCPは何CPか？

BQ-c

この石碑に名を連ねる鳥取県知事は誰か？

BQ-d

この石碑は何図先にあるか？

BQ-e

この『倉吉市行造林』の看板のすぐ近くにある建造物の名称は？

BQ-f

この電波塔は、何CPの近くにあるか？